اسم المجتهدة:.....
.....

5

نت أبي طالب للتعليم الأساسي (1-9)

سؤال قصير(2) أ في مادة العلوم للصف الخامس الفصل الثاني للعام

1- ضع اشارة (√) امام العبارة بما يناسبها ..
[2]

م	العبارة	صواب	خطأ
1	تسمى حركة الكواكب حول محورها بالدوران.		
2	تعاقب الليل والنهار يحدث بسبب دوران الارض حول الشمس.		
3	التوقيت يكون متشابه في كل أجزاء الكرة الارضية.		

2- أي الأشكال توضح الإتجاه الصحيح لدوران الارض حول محورها : **(ظلل الاجابة الصحيحة)**
[1]

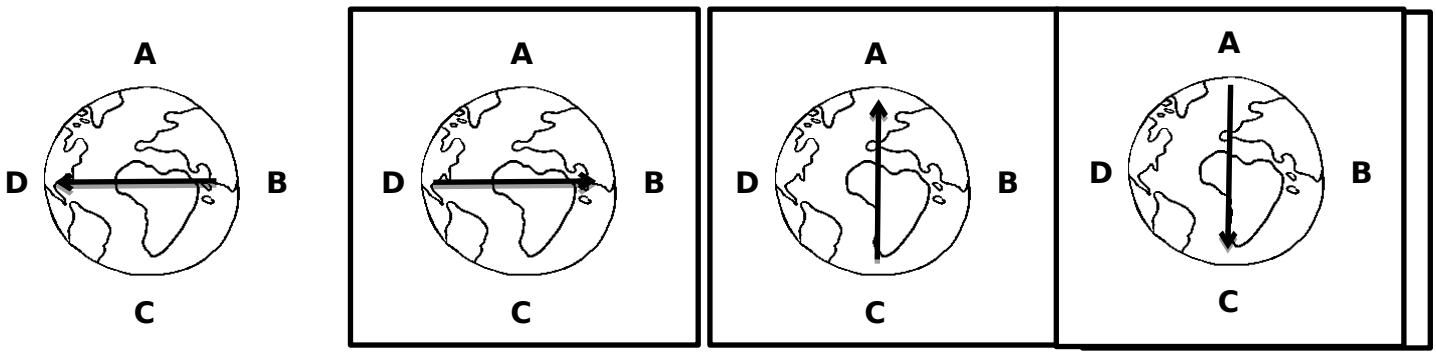

C إلى A ○ | A إلى C ○ | B إلى D ○ | D إلى B ○

3- أدرس الشكل وأجب عن الاتي:

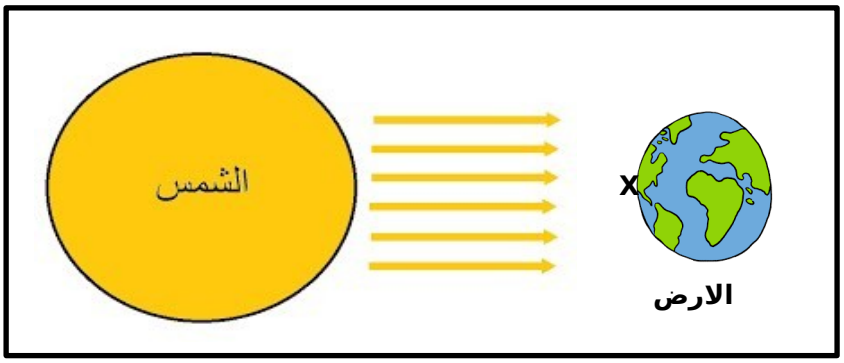

أ- سمر رأت الشمس وهي عند النقطة (X) على الأرض ، يمكنها رؤية الشمس مرة أخرى في نفس المكان بعد .....ساعة.

☐ 12 ☐ 24

فسر إجابتك:.....
..... [1]

ب- عندما يدور كوكب حول محوره ، ما الظاهرة التي تحدث لنصف الكوكب المواجه للشمس؟..... [1]

اسم المجتهدة:.....
.....

اعداد وزخارف ... ان ... التع... لمع...

...نت ابي طالب للتعليم الاساسي (1-9)

5

سؤال قصير(2) ب في مادة العلوم للصف الخامس الفصل الثاني للعام

1- ضع اشارة (√) امام العبارة بما يناسبها .. [2]

م	العبارة	صواب	خطأ
1	تسمى حركة الكواكب حول محورها بالدوران.		
2	تعاقب الليل والنهار يحدث بسبب دوران الارض حول محورها.		
3	التوقيت في الجزء الشرقي من الارض يكون مختلفاً عن الجزء الغربي		

2- أي الأشكال توضح الإتجاه الصحيح لدوران الارض حول محورها : **(ظلل الاجابة الصحيحة)** [1]

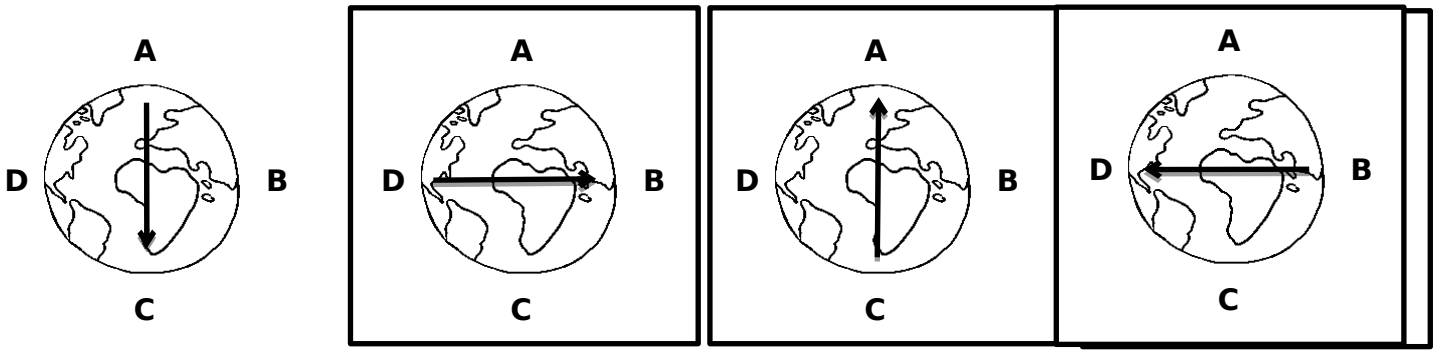

A إلى C ○ | B إلى D ○ | A إلى C ○ | D إلى B ○

3- أدرس الشكل وأجب عن الاتي:

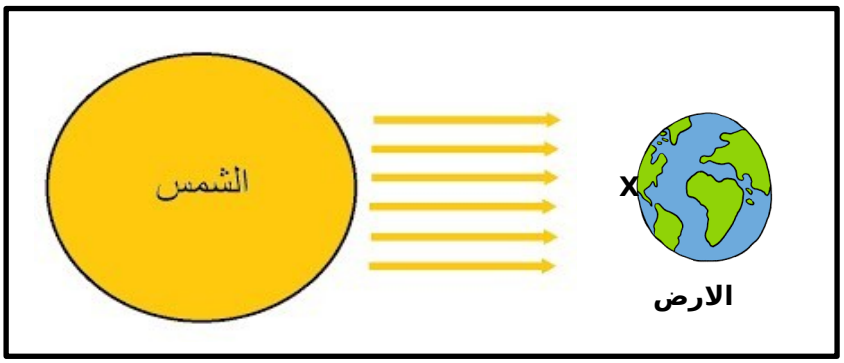

أ- سمر رأت الشمس وهي عند النقطة (X) على الأرض ، يمكنها رؤية الشمس مرة أخرى في نفس المكان بعد .....ساعة.

☐ 12 ☐ 24

فسر

م	النموذج أ	النموذج ب	الدرجة	المستوى	الدرس
1	صواب خطأ خطأ	صواب صواب صواب	درجتان	معرفه	دوران الارض حول محورها
2	من D الى B		درجة	تطبيق	
3- (أ)	24 ، لان الارض تكمل دوره واحدة حول محورها كل 24 (يوم كامل)		درجة	استدلال	
(ب)	النهار	الليل	درجة	تطبيق	

إجابتك:.....
..... [1]

ب- عندما يدور كوكب حول محوره ، ما الظاهرة التي تحدث لنصف الكوكب البعيد عن الشمس؟..... [1]

اعداد : حنان

نموذج الاجابة